Informace o přijímacích zkouškách podle studijních programů

TEST A
Filozofická fakulta Ostravské univerzity – katedra historie
Přijímací test z historie, 2021

Jméno a příjmení: ……
Studijní kombinace: …… Výsledný počet bodů: ……..

„Svým podpisem stvrzuji, že jsem seznámen(a) s Podmínkami pro přijetí ke studiu v bakalářských a magisterských studijních programech pro akademický rok 2021/2022 a že se seznámím s výsledky přijímacího řízení na internetových stránkách Ostravské univerzity. Svým podpisem rovněž stvrzuji, že jsem způsobilý(á) konat písemný test.“

Datum: …… Podpis: …….

---

1. Přečtěte si text a zakřížkujte správné odpovědi na otázky

(za správnou odpověď 1 bod, celkem 3 body)

„Od Štětína na Baltu po Terst na Jadranu byla přes kontinent spuštěna železná opona. Za touto linií leží všechna hlavní města starých států střední a východní Evropy: Varšava, Berlín, Praha, Vídeň, Budapešť, Bělehrad, Bukurešť a Sofie. Všechna tato vynikající města a jejich obyvatelé se nacházejí v něčem, co musím nazvat sovětskou sférou. (...) Komunistické strany, které byly ve všech těchto východních státech Evropy velmi malé, dosáhly postavení a moci, které neodpovídají počtu jejich členů a všude chtějí dosáhnout totalitní kontroly. Téměř ve všech těchto zemích převládají policejní vlády, s výjimkou Československa zde neexistuje pravá demokracie.“

Kdo je autorem projevu?

☐ Harry Truman ☐ Winston Churchill ☐ Franklin D. Roosevelt

Ve kterém roce byl projev pronesen?

☐ 5. března 1946 ☐ 8. května 1944 ☐ 12. března 1950

Jaký politický systém existoval v tehdejším Československu?

☐ omezená demokracie ☐ totalita ☐ lidová demokracie

2. Křížkem označte správný pojem

(za správné zakroužkování 1 bod, celkem 4 body)

Spojení panovnické moci s postavením nejvyššího představitele církve

☐ absolutismus ☐ cézaropapismus ☐ investitura ☐ oligarchie

Jak označujeme systém vlády v habsburské monarchii v období od konce napoleonských válek do revoluce roku 1848?

☐ bachovský absolutismus ☐ metternichovský autoritarismus

☐ bachovský autoritarismus ☐ metternichovský absolutismus

Jakým termínem označujeme kulturně podmíněné odlišnosti mezi biologickými pohlavími?

☐ feminismus ☐ gender ☐ maskulinita ☐ identita

Společensko-politický proces osamostatňování koloniálních držav od nadvlády svrchovaného státu je?

☐ decentralizace ☐ dekolonizace ☐ demonopolizace ☐ demokratizace

3. Napište správný pojem (za správný pojem 1 bod, celkem 5 bodů)

Pomocná věda historická zabývající se historií a symbolikou znaků a erbů:

…… …… heraldika

Krycí název pro vylodění spojenců v Normandii v roce 1944:

…… operace Overlord

Vyhraněný protižidovský postoj:

…… antisemitismus

Potvrzení dědičného královského titulu českých panovníků:

…… Zlatá bula sicilská

Umělecký směr převládající na dvoře Rudolfa II.:

…… manýrismus

4. Přiřaďte správné datum k události

(za správné přiřazení 1 bod, celkem 10 bodů)

44 př. n. l., 27 př. n. l., 843, 863, 1063, 1212, 1344, 1415, 1526, 1575, 1740, 1763, 1789, 1793, 1932, 1935, 1936, 1938, 1945, 1947

Počátek římského principátu/císařství	**27 př. n. l.**	E. Beneš poprvé prezidentem ČSR	**1935**
Česká konfese	**1575**	Verdunská smlouva	**843**
Počátek Velké francouzské revoluce	**1789**	Počátek vlády Marie Terezie	**1740**
Zřízení arcibiskupství v Praze	**1344**	Vyhlášení Marshallova plánu	**1947**
Křišťálová noc	**1938**	Zlatá bula sicilská	**1212**

5. Utvořte správné dvojice

(za správné utvoření 1 bod, celkem 5 bodů)

a) Františka Plamínková

b) Tamerlán

c) Vavro Šrobár

d) Horatio Nelson

e) Albert Speer

1) architekt a nacistický ministr zbrojení

2) britský admirál

3) expresionistická malířka

4) turkicko-mongolský vojevůdce

5) inženýr a průkopník letectví

6) československý politik a lékař

7) politička a bojovnice za práva žen

Do závorek vepište správné řešení, např. a (1):

a (7), b (4), c (6), d (2), e (1)

6. Mohly se uvedené osobnosti za svého života teoreticky potkat? Do tabulky zapište správnou odpověď (ANO, nebo NE)

(za správnou odpověď 1 bod, celkem 5 bodů)

	ANO	NE
1. Tomáš Garrigue Masaryk – Lev Nikolajevič Tolstoj	ANO	
2. Josef Václav Radecký z Radče – Jan Syrový		NE
3. Alois Rašín – Karel Engliš	ANO	
4. Josef Václav Myslbek – Vojtěch Hynais	ANO	
5. Marie Curie-Skłodowská – Mikuláš Koperník		NE

7. Poznejte osobnost podle uvedených indicií a označte ji křížkem

(za správnou odpověď 1 bod, celkem 5 bodů)

Říman – 59 př. n. l. – 17. n. l. – historik – římské dějiny

☐ Titus Livius ☐ Julius Caesar ☐ Seneca

Císař/král – švagr Ludvíka XVI. – zrušení tzv. nevolnictví/toleranční patent – 18. století

☐ Josef I. ☐ Leopold II ☐ Josef II.

Sarajevo – 1914 – nacionalista – atentátník – Černá ruka

☐ František Ferdinand d´Este ☐ Gavrilo Princip ☐ Milan R. Štefánik

Hudební skladatel – 19. století – hluchota – Litomyšl

☐ Bedřich Smetana ☐ Antonín Dvořák ☐ Bohuslav Martinů

Slovák – 1968 – první tajemník ÚV KSČ – Pražské jaro

☐ Antonín Novotný ☐ Alexander Dubček ☐ Klement Gottwald

8. Přiřaďte následující pojmy, osobnosti, stavby a události k území současných států. V tabulce zvýrazněte správnou odpověď (za správné zařazení 1 bod, celkem 5 bodů)

Chammurapiho zákoník:	Írán	Izrael	Libanon
První občanský zákoník:	Německo	Itálie	Francie
Ermitáž:	Francie	Rusko	Švýcarsko
Panna Orleánská:	Španělsko	Itálie	Francie
Vznik Charty OSN:	Švýcarsko	USA	Velká Británie

9. Přiřaďte k jednotlivým osobnostem jejich pole působnosti. Správné odpovědi vepište do tabulky

(za správné přiřazení 1 bod, celkem 5 bodů)

1. Winston Churchill
2. Max Weber
3. Anton Pavlovič Čechov
4. Fernão de Magalhães
5. Vlasta Burian

A. sociologie
B. politika
C. mořeplavba
D. film
E. literatura

1.	2.	3.	4.	5.
B	A	E	C	D

10. K uvedeným výrokům přiřaďte autora, správnou odpověď zakřížkujte (za správnou odpověď 1 bod, celkem 5 bodů)

„Pouze dvě věci jsou nekonečné. Vesmír a lidská hloupost."

☐ Albert Einstein ☐ Louis Pasteur N ☐ iccolò Machiavelli

„Jsem Čech rodu slovanského, i se vším tím nemnohým, co mám i co mohu, oddal sem se zcela i na vždy ve službu svému národu."

☐ Karel Čapek ☐ Tomáš G. Masaryk ☐ František Palacký

„Kdo víno má a nepije, kdo hrozny má a nejí je, kdo ženu má a nelíbá, kdo zábavě se vyhýbá, na toho vemte bič a hůl, to není člověk, to je vůl.“

☐ Jan Werich ☐ Jiří Suchý ☐ Vlasta Burian

„Lépe jest dobře zemříti nežli zle živu býti.“

☐ Jan Žižka ☐ Jan Hus ☐ Jan Kalvín

„Bůh se stal člověkem, aby se člověk stal bohem.“

☐ sv. Augustin ☐ Aristoteles ☐ Francis Bacon

11. Určete, zda jsou události v časové řadě řazeny chronologicky od nejstarší po nejmladší. Zakřížkujte správnou odpověď

(za správnou odpověď 1 bod, celkem 5 bodů)

a) vznik OSN – vznik Izraele – podpis Varšavské smlouvy – vznik Evropské unie

☐ ANO ☐ NE 1945, 1948, 1955, 1993

b) vylodění Otců poutníků v Plymouthu – Bostonské pití čaje – vyhlášení nezávislosti USA – zavraždění Abrahama Lincolna

☐ ANO ☐ NE 1620, 1773, 1783, 1865

c) státní bankrot v Rakouském císařství – zrušení roboty – premiéra divadelní hry Fidlovačka ve Stavovském divadle – vydán patent o zrušení nevolnictví

☐ ANO ☐ NE 1811, 1781, 1834, 1848

d) bitva u Wogastisburgu – Karel Veliký korunován papežem Lvem III. římským císařem – uzavřena Verdunská smlouva – bitva u Tours/Poitiers

☐ ANO ☐ NE 631, 800, 843, 732

e) založení biskupství v Olomouci – Vratislav II. prvním českým králem – Zlatá bula sicilská – Jan Lucemburský českým králem

☐ ANO ☐ NE 1063, 1085, 1212, 1310

12. Podtrhněte, co do uvedené řady nepatří a vysvětlete proč

(za správně podtržený údaj 1 bod, za správné vysvětlení 1 bod, celkem 10 bodů)

- první Olympijské hry
- hidžra
- založení Říma
- smrt G. J. Ceasara
- narození Krista

Smrt G. J. Caesara nebyla událostí znamenající počátek letopočtu.

……

- bitva na Moravském poli
- bitva u Domažlic
- bitva na Vítkově
- bitva u Sudoměře
- bitva u Lipan

Bitva na Moravském poli se neřadí mezi husitské bitvy

……

- katedrála sv. Víta v Praze
- chrám svaté Barbory v Kutné Hoře
- kostel sv. Jana Nepomuckého na Zelené Hoře
- Emauzský klášter
- zbraslavský klášter

Jako jediný patří do stylu tzv. barokní gotiky.

……

- bostonské pití čaje
- pád Bastily
- Babeufovo spiknutí rovných
- jakobínská diktatura
- thermidorský převrat

Bostonské pití čaje nepatří mezi události Velké francouzské revoluce.

……

- Neville Chamberlain
- Édouard Daladier
- Josip V. Stalin
- Adolf Hitler
- Benito Mussolini

J. Stalin jako jediný nepodepsal mnichovskou dohodu.

……

13. Prohlédněte si obrázky a křížkem označte správné odpovědi na otázky (každá správná odpověď 1 bod, celkem 4 body)



Která dynastie odpovídá následujícím obrázkům?

☐ Habsburkové ☐ Jagellonci ☐ Lucemburkové

Který český král se nachází na reliéfu na druhém obrázku?

☐ Jan Lucemburský ☐ Václav IV. ☐ Karel IV.

Která stavba se nachází na prvním obrázku?

☐ Radyně ☐ Kašperk ☐ Karlštejn

Která bitva je zobrazena na třetím obrázku?

☐ bitva u Lipan ☐ bitva u Kresčaku ☐ bitva u Grunwaldu

14. Prohlédněte si všechny tři obrázky a u každého z nich zaškrtněte správné odpovědi
(za každou správnou odpověď 1 bod, celkem 9 bodů)

Jak se stavba nazývá, kde se nachází a v jakém slohu byla postavena?

- [ ] Bazilika svatého Prokopa; Třebíč; románský sloh
- [ ] Chrám sv. Barbory; Kutná Hora; gotika
- [ ] Chrám sv. Mikuláše; Praha; baroko

Napište název uměleckého směru, do něhož se malba řadí, a vyberte jeho představitele:

- [ ] expresionismus
- [ ] surrealismus
- [ ] kubismus

- [ ] Pablo Picasso
- [ ] Josef Čapek
- [ ] Salvador Dalí

Označte název architektonického stylu a jeho typické znaky:

- [ ] románský sloh
- [ ] gotika
- [ ] romantismus

- [ ] opěrný systém, lomený oblouk, klenební žebra
- [ ] složité ozdobné prvky, asymetrie, křivky
- [ ] půlkruhové oblouky, podpěrné sloupy, silné mohutné zdi

15. Ke každému portrétu přiřaďte správné jméno osobnosti, správné odpovědi zapište do tabulky

(za správnou odpověď 1 bod, celkem 6 bodů)

A

B

C

D

E

F

1. Alexander Dubček
2. Gustáv Husák
3. Karel V. Habsburský
4. Jan Kalvín
5. Jiří z Poděbrad
6. J. V. Stalin
7. sv. Jan Nepomucký
8. Martin Luther
9. sv. Václav
10. Ivan IV. Hrozný
11. Miloš Jakeš
12. Sókratés
13. V. M. Molotov
14. Sulejman I.
15. Marcus Aurelius
16. Ladislav Pohrobek
17. Zikmund Lucemburský
18. N. S. Chruščov

Řešení (např. A 1):

A 16	B 3	C 6	D 7	E 1	F 15

16. Prohlédněte si následující obrázky. Do tabulky uveďte, co zobrazují, a s pomocí čísla na slepé mapě určete jejich polohu (každá správná odpověď 1 bod, celkem 10 bodů)

A

B

C

D

E

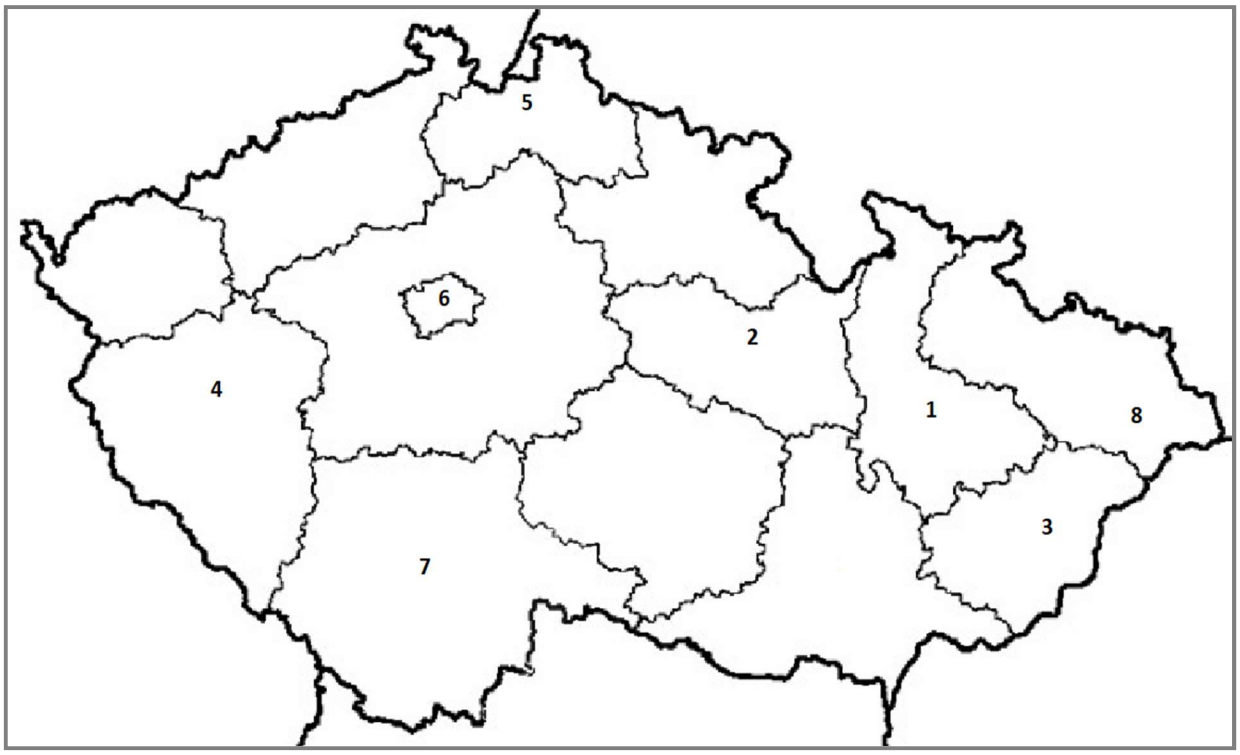

Číslo v mapě	Obrázek	Vyberte (zakroužkujte, podtrhněte) vyobrazenou lokalitu
1	C	Olomouc – Uničov – České Budějovice
2	A	Velké Losiny – Litomyšl – Sychrov
3	D	Zlín – Ostrava – Ústí n. Labem
4	E	Jubilejní brána v Plzni – Prašná brána v Praze – Pravčická brána
5	B	Praděd – Ještěd – Lysá hora

17. Prohlédněte si karikaturu a zaškrtněte správné odpovědi

(za každou správnou odpověď 1 bod, celkem 4 body)

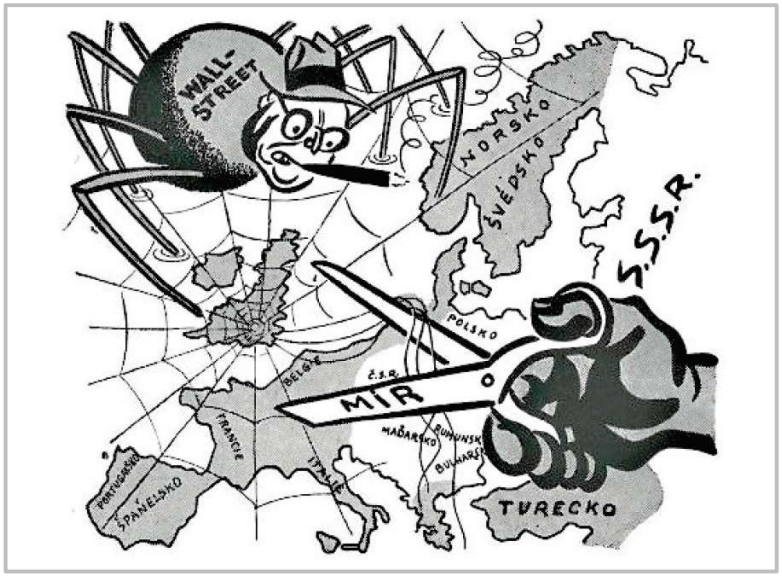

Ke kterému konfliktu se karikatura vztahuje?

☐ Druhá světová válka ☐ Studená válka ☐ První světová válka

Do jakého období lze obrázek zařadit?

☐ 1946–1989 ☐ 1914–1918 ☐ 1939–1945

O jakou propagandu šlo?

☐ Propaganda Spojených států amerických ☐ Nacistická propaganda

☐ Propaganda komunistického Československa

Proč ruka odstřihuje pavučinu?

☐ Zbavuje Evropu kapitalistického režimu

☐ Zbavuje Evropu nacistického režimu

☐ Zbavuje Evropu komunistického režimu

1) B0222A120013, Historie
Historie
Forma přijímací zkoušky: písemná

2) B0222A120013, Historie
Historie-Anglický jazyk
Historie-Anglický jazyk pro vzdělávání
Historie –Český jazyk a literatura
Historie –Český jazyk a literatura pro vzdělávání
Historie –Dějiny umění
Historie –Dějiny umění pro vzdělávání
Historie-Německý jazyk
Historie –Německý jazyk a literatura pro vzdělávání
Historie – Španělský jazyk
Historie-Španělský jazyk pro vzdělávání
Historie –Filozofie
Historie – Sociologie
Historie – Polský jazyk a literatura
Historie-Ruský jazyk pro vzdělávání
Historie – Základy společenských věd pro vzdělávání
Historie-Biologie pro vzdělávání
Historie-Geografie pro vzdělávání
Historie-Matematika pro vzdělávání
Historie-Fyzika pro vzdělávání
Forma přijímací zkoušky: písemná

3) B0231A090058, Anglická filologie
Anglický jazyk a literatura – Historie pro vzdělávání
Forma přijímací zkoušky: písemná

4) B0232A090009, Český jazyk a literatura
Český jazyk a literatura – Historie pro vzdělávání
Forma přijímací zkoušky: písemná

5) B0213A320002, Dějiny umění
Dějiny umění - Historie
Dějiny umění – Historie pro vzdělávání
Forma přijímací zkoušky: písemná

6) B0288A100001, Základy společenských věd
Základy společenských věd – Historie pro vzdělávání
Forma přijímací zkoušky: písemná

7) B0231A090064, Ruská filologie
Ruský jazyk – Historie
Forma přijímací zkoušky: písemná

8) B0314A250012, Sociologie
Sociologie-Historie
Forma přijímací zkoušky: písemná

9) B0231A090062, Německá filologie
Německý jazyk – Historie
Forma přijímací zkoušky: písemná

Kritéria pro vyhodnocení a postup, jakým se stanoví výsledek přijímací zkoušky nebo její části: viz výše.

1) **B0222A120013, Historie**
   Historie
   Základní statistické charakteristiky písemné přijímací zkoušky nebo její části:
   Počet uchazečů, kteří se zúčastnili písemné přijímací zkoušky: 33
   Nejlepší možný výsledek písemné přijímací zkoušky: 100
   Nejlepší skutečně dosažený výsledek písemné přijímací zkoušky: 100
   Průměrný výsledek písemné přijímací zkoušky: 71,18
   Směrodatná odchylka výsledků písemné přijímací zkoušky: 15,07
   Decilové hranice výsledku zkoušky:

2) **B0222A120013, Historie**
   Historie-Anglický jazyk
   Základní statistické charakteristiky písemné přijímací zkoušky nebo její části:
   Počet uchazečů, kteří se zúčastnili písemné přijímací zkoušky: 6
   Nejlepší možný výsledek písemné přijímací zkoušky: 100
   Nejlepší skutečně dosažený výsledek písemné přijímací zkoušky: 100
   Průměrný výsledek písemné přijímací zkoušky: 70
   Směrodatná odchylka výsledků písemné přijímací zkoušky: 17,4
   Decilové hranice výsledku zkoušky:

   Historie-Anglický jazyk pro vzdělávání
   Základní statistické charakteristiky písemné přijímací zkoušky nebo její části:
   Počet uchazečů, kteří se zúčastnili písemné přijímací zkoušky: 8
   Nejlepší možný výsledek písemné přijímací zkoušky: 100
   Nejlepší skutečně dosažený výsledek písemné přijímací zkoušky: 100
   Průměrný výsledek písemné přijímací zkoušky: 73,5
   Směrodatná odchylka výsledků písemné přijímací zkoušky: 13,35
   Decilové hranice výsledku zkoušky:

   Historie –Český jazyk a literatura
   Základní statistické charakteristiky písemné přijímací zkoušky nebo její části:
   Počet uchazečů, kteří se zúčastnili písemné přijímací zkoušky: 4
   Nejlepší možný výsledek písemné přijímací zkoušky: 100
   Nejlepší skutečně dosažený výsledek písemné přijímací zkoušky: 100
   Průměrný výsledek písemné přijímací zkoušky:
   Směrodatná odchylka výsledků písemné přijímací zkoušky: 18,3
   Decilové hranice výsledku zkoušky:

   Historie –Český jazyk a literatura pro vzdělávání
   Základní statistické charakteristiky písemné přijímací zkoušky nebo její části:
   Počet uchazečů, kteří se zúčastnili písemné přijímací zkoušky: 9
   Nejlepší možný výsledek písemné přijímací zkoušky: 100
   Nejlepší skutečně dosažený výsledek písemné přijímací zkoušky: 100
   Průměrný výsledek písemné přijímací zkoušky: 79,78
   Směrodatná odchylka výsledků písemné přijímací zkoušky: 10,97
   Decilové hranice výsledku zkoušky:

Historie –Dějiny umění

Základní statistické charakteristiky písemné přijímací zkoušky nebo její části:
Počet uchazečů, kteří se zúčastnili písemné přijímací zkoušky: 0
Nejlepší možný výsledek písemné přijímací zkoušky: 100
Nejlepší skutečně dosažený výsledek písemné přijímací zkoušky:
Průměrný výsledek písemné přijímací zkoušky:
Směrodatná odchylka výsledků písemné přijímací zkoušky:
Decilové hranice výsledku zkoušky:

Historie –Dějiny umění pro vzdělávání
Základní statistické charakteristiky písemné přijímací zkoušky nebo její části:
Počet uchazečů, kteří se zúčastnili písemné přijímací zkoušky: 3
Nejlepší možný výsledek písemné přijímací zkoušky: 100
Nejlepší skutečně dosažený výsledek písemné přijímací zkoušky: 100
Průměrný výsledek písemné přijímací zkoušky:
Směrodatná odchylka výsledků písemné přijímací zkoušky: 10,97
Decilové hranice výsledku zkoušky:

Historie-Německý jazyk
Základní statistické charakteristiky písemné přijímací zkoušky nebo její části:
Počet uchazečů, kteří se zúčastnili písemné přijímací zkoušky: 0
Nejlepší možný výsledek písemné přijímací zkoušky: 100
Nejlepší skutečně dosažený výsledek písemné přijímací zkoušky:
Průměrný výsledek písemné přijímací zkoušky:
Směrodatná odchylka výsledků písemné přijímací zkoušky:
Decilové hranice výsledku zkoušky:

Historie –Německý jazyk a literatura pro vzdělávání
Základní statistické charakteristiky písemné přijímací zkoušky nebo její části:
Počet uchazečů, kteří se zúčastnili písemné přijímací zkoušky: 0
Nejlepší možný výsledek písemné přijímací zkoušky: 100
Nejlepší skutečně dosažený výsledek písemné přijímací zkoušky:
Průměrný výsledek písemné přijímací zkoušky:
Směrodatná odchylka výsledků písemné přijímací zkoušky:
Decilové hranice výsledku zkoušky:

Historie – Španělský jazyk
Základní statistické charakteristiky písemné přijímací zkoušky nebo její části:
Počet uchazečů, kteří se zúčastnili písemné přijímací zkoušky: 2
Nejlepší možný výsledek písemné přijímací zkoušky: 100
Nejlepší skutečně dosažený výsledek písemné přijímací zkoušky: 60
Průměrný výsledek písemné přijímací zkoušky:
Směrodatná odchylka výsledků písemné přijímací zkoušky: 2,12
Decilové hranice výsledku zkoušky:

Historie-Španělský jazyk pro vzdělávání
Základní statistické charakteristiky písemné přijímací zkoušky nebo její části:
Počet uchazečů, kteří se zúčastnili písemné přijímací zkoušky: 0
Nejlepší možný výsledek písemné přijímací zkoušky: 100
Nejlepší skutečně dosažený výsledek písemné přijímací zkoušky:
Průměrný výsledek písemné přijímací zkoušky:
Směrodatná odchylka výsledků písemné přijímací zkoušky:
Decilové hranice výsledku zkoušky:

Historie –Filozofie
Základní statistické charakteristiky písemné přijímací zkoušky nebo její části:
Počet uchazečů, kteří se zúčastnili písemné přijímací zkoušky: 1
Nejlepší možný výsledek písemné přijímací zkoušky: 100
Nejlepší skutečně dosažený výsledek písemné přijímací zkoušky: 85
Průměrný výsledek písemné přijímací zkoušky:
Směrodatná odchylka výsledků písemné přijímací zkoušky: 0,0
Decilové hranice výsledku zkoušky:

Historie – Sociologie
Základní statistické charakteristiky písemné přijímací zkoušky nebo její části:
Počet uchazečů, kteří se zúčastnili písemné přijímací zkoušky: 1
Nejlepší možný výsledek písemné přijímací zkoušky: 100
Nejlepší skutečně dosažený výsledek písemné přijímací zkoušky: 80
Průměrný výsledek písemné přijímací zkoušky:
Směrodatná odchylka výsledků písemné přijímací zkoušky: 0,0
Decilové hranice výsledku zkoušky:

Historie – Polský jazyk a literatura
Základní statistické charakteristiky písemné přijímací zkoušky nebo její části:
Počet uchazečů, kteří se zúčastnili písemné přijímací zkoušky: 1
Nejlepší možný výsledek písemné přijímací zkoušky: 100
Nejlepší skutečně dosažený výsledek písemné přijímací zkoušky: 86
Průměrný výsledek písemné přijímací zkoušky:
Směrodatná odchylka výsledků písemné přijímací zkoušky: 0,0
Decilové hranice výsledku zkoušky:

Historie-Ruský jazyk pro vzdělávání
Základní statistické charakteristiky písemné přijímací zkoušky nebo její části:
Počet uchazečů, kteří se zúčastnili písemné přijímací zkoušky: 0
Nejlepší možný výsledek písemné přijímací zkoušky: 100
Nejlepší skutečně dosažený výsledek písemné přijímací zkoušky:
Průměrný výsledek písemné přijímací zkoušky:
Směrodatná odchylka výsledků písemné přijímací zkoušky:
Decilové hranice výsledku zkoušky:

Historie-Základy společenských věd pro vzdělávání
Základní statistické charakteristiky písemné přijímací zkoušky nebo její části:
Počet uchazečů, kteří se zúčastnili písemné přijímací zkoušky: 15
Nejlepší možný výsledek písemné přijímací zkoušky: 100
Nejlepší skutečně dosažený výsledek písemné přijímací zkoušky: 87
Průměrný výsledek písemné přijímací zkoušky: 66,73
Směrodatná odchylka výsledků písemné přijímací zkoušky: 11,2
Decilové hranice výsledku zkoušky:

Historie-Biologie pro vzdělávání
Základní statistické charakteristiky písemné přijímací zkoušky nebo její části:
Počet uchazečů, kteří se zúčastnili písemné přijímací zkoušky: 3
Nejlepší možný výsledek písemné přijímací zkoušky: 100
Nejlepší skutečně dosažený výsledek písemné přijímací zkoušky: 74
Průměrný výsledek písemné přijímací zkoušky:
Směrodatná odchylka výsledků písemné přijímací zkoušky: 10,82
Decilové hranice výsledku zkoušky:

Historie-Geografie pro vzdělávání
Základní statistické charakteristiky písemné přijímací zkoušky nebo její části:
Počet uchazečů, kteří se zúčastnili písemné přijímací zkoušky: 18
Nejlepší možný výsledek písemné přijímací zkoušky: 100
Nejlepší skutečně dosažený výsledek písemné přijímací zkoušky: 100
Průměrný výsledek písemné přijímací zkoušky: 76,33
Směrodatná odchylka výsledků písemné přijímací zkoušky: 13,72
Decilové hranice výsledku zkoušky:

Historie-Matematika pro vzdělávání
Základní statistické charakteristiky písemné přijímací zkoušky nebo její části:
Počet uchazečů, kteří se zúčastnili písemné přijímací zkoušky: 1
Nejlepší možný výsledek písemné přijímací zkoušky: 100
Nejlepší skutečně dosažený výsledek písemné přijímací zkoušky: 83
Průměrný výsledek písemné přijímací zkoušky:
Směrodatná odchylka výsledků písemné přijímací zkoušky: 0,0
Decilové hranice výsledku zkoušky:

Historie-Fyzika pro vzdělávání
Základní statistické charakteristiky písemné přijímací zkoušky nebo její části:
Počet uchazečů, kteří se zúčastnili písemné přijímací zkoušky: 1
Nejlepší možný výsledek písemné přijímací zkoušky: 100
Nejlepší skutečně dosažený výsledek písemné přijímací zkoušky: 55
Průměrný výsledek písemné přijímací zkoušky:
Směrodatná odchylka výsledků písemné přijímací zkoušky: 0,0
Decilové hranice výsledku zkoušky:

3) **B0231A090058, Anglická filologie**
Anglický jazyk a literatura – Historie pro vzdělávání
Základní statistické charakteristiky písemné přijímací zkoušky nebo její části:
Počet uchazečů, kteří se zúčastnili písemné přijímací zkoušky: 14
Nejlepší možný výsledek písemné přijímací zkoušky: 100
Nejlepší skutečně dosažený výsledek písemné přijímací zkoušky: 88
Průměrný výsledek písemné přijímací zkoušky: 69,43
Směrodatná odchylka výsledků písemné přijímací zkoušky: 13,98
Decilové hranice výsledku zkoušky:

4) **B0232A090009, Český jazyk a literatura**
Český jazyk a literatura – Historie pro vzdělávání
Základní statistické charakteristiky písemné přijímací zkoušky nebo její části:
Počet uchazečů, kteří se zúčastnili písemné přijímací zkoušky: 6
Nejlepší možný výsledek písemné přijímací zkoušky: 100
Nejlepší skutečně dosažený výsledek písemné přijímací zkoušky: 87
Průměrný výsledek písemné přijímací zkoušky: 76,5
Směrodatná odchylka výsledků písemné přijímací zkoušky: 9,14
Decilové hranice výsledku zkoušky:

5) **B0213A320002, Dějiny umění**
Dějiny umění - Historie
Počet uchazečů, kteří se zúčastnili písemné přijímací zkoušky: 1
Nejlepší možný výsledek písemné přijímací zkoušky: 100
Nejlepší skutečně dosažený výsledek písemné přijímací zkoušky: 51
Průměrný výsledek písemné přijímací zkoušky:
Směrodatná odchylka výsledků písemné přijímací zkoušky: 0,0
Decilové hranice výsledku zkoušky:

Dějiny umění – Historie pro vzdělávání
Základní statistické charakteristiky písemné přijímací zkoušky nebo její části:
Počet uchazečů, kteří se zúčastnili písemné přijímací zkoušky:1
Nejlepší možný výsledek písemné přijímací zkoušky: 100
Nejlepší skutečně dosažený výsledek písemné přijímací zkoušky: 67
Průměrný výsledek písemné přijímací zkoušky:
Směrodatná odchylka výsledků písemné přijímací zkoušky: 0,0
Decilové hranice výsledku zkoušky:

6) **B0288A100001, Základy společenských věd**
Základy společenských věd – Historie pro vzdělávání
Základní statistické charakteristiky písemné přijímací zkoušky nebo její části:
Počet uchazečů, kteří se zúčastnili písemné přijímací zkoušky: 2
Nejlepší možný výsledek písemné přijímací zkoušky: 100
Nejlepší skutečně dosažený výsledek písemné přijímací zkoušky: 73
Průměrný výsledek písemné přijímací zkoušky: 12,73
Směrodatná odchylka výsledků písemné přijímací zkoušky:
Decilové hranice výsledku zkoušky:

7) **B0231A090064, Ruská filologie**
Ruský jazyk – Historie

Základní statistické charakteristiky písemné přijímací zkoušky nebo její části:
Počet uchazečů, kteří se zúčastnili písemné přijímací zkoušky: 0
Nejlepší možný výsledek písemné přijímací zkoušky: 100
Nejlepší skutečně dosažený výsledek písemné přijímací zkoušky:
Průměrný výsledek písemné přijímací zkoušky:
Směrodatná odchylka výsledků písemné přijímací zkoušky:
Decilové hranice výsledku zkoušky:

8) **B0314A250012, Sociologie**
Sociologie-Historie
Základní statistické charakteristiky písemné přijímací zkoušky nebo její části:
Počet uchazečů, kteří se zúčastnili písemné přijímací zkoušky: 0
Nejlepší možný výsledek písemné přijímací zkoušky: 100
Nejlepší skutečně dosažený výsledek písemné přijímací zkoušky:
Průměrný výsledek písemné přijímací zkoušky:
Směrodatná odchylka výsledků písemné přijímací zkoušky:
Decilové hranice výsledku zkoušky:

9) **B0231A090062, Německá filologie**
Německý jazyk - Historie
Základní statistické charakteristiky písemné přijímací zkoušky nebo její části:
Počet uchazečů, kteří se zúčastnili písemné přijímací zkoušky: 0
Nejlepší možný výsledek písemné přijímací zkoušky: 100
Nejlepší skutečně dosažený výsledek písemné přijímací zkoušky:
Průměrný výsledek písemné přijímací zkoušky:
Směrodatná odchylka výsledků písemné přijímací zkoušky:
Decilové hranice výsledku zkoušky: