› Přírodovědecká fakulta Ostravské univerzity v Ostravě • 30. dubna 22
701 03 Ostrava • Česká republika • telefon +420 597 460 228
fax +420 596 120 478 • prf.osu.cz

IČ 61988987 • DIČ CZ61988987
Bankovní spojení: ČNB Ostrava, č. ú. 931761/0710

UNIVERSITAS OSTRAVIENSIS
Facultas Rerum Naturalium

KATEDRA SOCIÁLNÍ GEOGRAFIE A REGIONÁLNÍHO ROZVOJE

TEST K PŘIJÍMACÍ ZKOUŠCE
pro obor
POLITICKÁ A KULTURNÍ GEOGRAFIE (nav. mgr.)
na akademický rok 2015/2016

Příjmení a jméno: .....

Kontakt (e-mail, telefon): .....

Univerzitní číslo: .....

Pokyny:

- Celkově můžete z testu získat 50 bodů.
- Bodové hodnocení otázek se liší podle jejich náročnosti.
- Zadání otázek čtěte velmi pozorně a teprve, když jste si jisti, zapište odpověď do daného umístění. Odpověď u uzavřených otázek označte kroužkem – korekci označte křížkem a vaši novou odpověď opět kroužkem – nejednoznačné označení nebude hodnoceno.
- Uzavřené otázky mají pouze jednu správnou odpověď.
- Pište čitelně – nejlépe hůlkovým písmem, nečitelné odpovědi nebudou hodnoceny.
- Na vyplnění testu máte max. 20 minut.

› Přírodovědecká fakulta Ostravské univerzity v Ostravě • 30. dubna 22
701 03 Ostrava • Česká republika • telefon +420 597 460 228
fax +420 596 120 478 • prf.osu.cz

IČ 61988987 • DIČ CZ61988987
Bankovní spojení: ČNB Ostrava, č. ú. 931761/0710

1. Mezi politické geografy nelze řadit (2 bodů):

a) Geraoid Ó Tuathail
b) Joanne Sharp
c) Anthony Giddens
d) John Agnew

2. Wallersteinova teorie, konceptualizující vztah jádra a periferie, se převážně zaměřuje na: (2 body)

a) vzájemný vztah rozvojových států v kapitalistické ekonomice (např. Indonésie a Papua-Nová Guinea)
b) mocenské nevyváženosti impériem a jeho satelity v komunistické ekonomice (např. SSSR a ČSSR)
c) nevyvážený politicko-ekonomický vztah vyspělých a zaostalých států v kapitalistické ekonomice (např. UK a Svazijsko)
d) vojenskou dominanci USA vůči tzv. třetímu světu

3. Autory teorie cleavages jsou: (2 bod)

a) Lipset a Rokkan
b) Dahl a Sartori
c) Buzan a Wæver
d) Carr a Morgenthau

4. Pokud v poměrném volebním systému při přepočtu odevzdaných hlasů na získané mandáty místo d'Hondtovy metody volebních dělitelů, pracující s číselnou řadou přirozených celých čísel počínajících číslem 1, použijeme metodu Sainte-Laguë, používající pouze řadu lichých přirozených celých čísel, nastane oproti původní d'Hondtově variantě jedna z následujících možností: (2 bodů)

a) Zvýhodněny budou velké strany.
b) Zvýhodněny budou malé strany.
c) Zvýhodněny budou strany, které kandidují ve všech volebních krajích/obvodech.
d) Nestane se nic, pro přepočítání hlasů na mandáty je zejména důležitý počet dělitelů, ne jejich číselné hodnoty.

5. Co to jsou remitence: (2 body)

.....

.....

.....

6. Nestoriáni jsou: (2 body)

a) příslušníci islámské sekty ze 18. století – předchůdci baháistů
b) označení pro ty, co odmítli výsledky 2. Vatikánského koncilu
c) příslušníci heretické křesťanské církve
d) sekta založená odpadlíky od většinového mormonismu vedeného Youngem

7. Příkladem hypotézy je věta: (2 body)

a) Volební účast se zvyšuje s rostoucím vzděláním.
b) V Česku narůstá počet vysokoškolsky vzdělaných obyvatel.
c) Předpokládám, že 5 % vysokoškolsky vzdělaných obyvatel je nezaměstnaných.
d) V Česku v příštích 10 letech naroste počet vysokoškolsky vzdělaných obyvatel.

8. Tzv. Monroeva doktrína: (2 body)

a) vyhlásila evropskou intervenci na americkém kontinentu za akt agrese vůči USA
b) měla za cíl omezit vliv Sovětského svazu v Latinské Americe
c) byla reakcí na kubánskou revoluci
d) zrušila otroctví na americkém kontinentu

9. Doplňte vynechaná slova: (max. 10 bodů)

Jedním z nejvýznamnějších integračních pokusů na asijském kontinentu je ***……a…….,*** *která má své kořeny v období počátku devadesátých let, kdy se SSSR rozpadl na* ***…b…*** *nezávislých států, mezi nimiž byly diskutovány problémy ohledně vzájemných hranic. Následně se tyto diskuse přenesly na uskupení států Čína plus Rusko, Kazachstán, Kyrgyzstán a Tádžikistán. Významným výsledkem této organizace byla bezesporu Smlouva o posílení důvěry ve vojenské oblasti, která byla podepsána v roce 1996 v* ***…c…,*** *což se promítlo i do názvu této organizace. V roce 2001 doplnil původní pětku* ***…d…,*** *v jehož hlavním městě* ***…e…*** *se uskutečnil ve dnech 10.-11.června 2010 summit na nejvyšší úrovni.*

a).....

b).....

c).....

d).....

e).....

10. Ke každé kolonii dopište koloniální mocnost, které patřila v období před 1. světovou válkou: (10 bodů)

Kamerun .....

Senegal .....

Mosambik .....

Sierra Leone .....

Guinea .....

11. Doplňte názvy států, v rámci nichž se dané území nachází: (10 bodů)

Mandžusko .....

Kalmycko .....

Alberta .....

Graubünden .....

Tuva .....

12. Které státy (jihoamerický a asijský) znázorňují kartografická zobrazení níže: (4 bodů)

a) ……

b) ……

a)

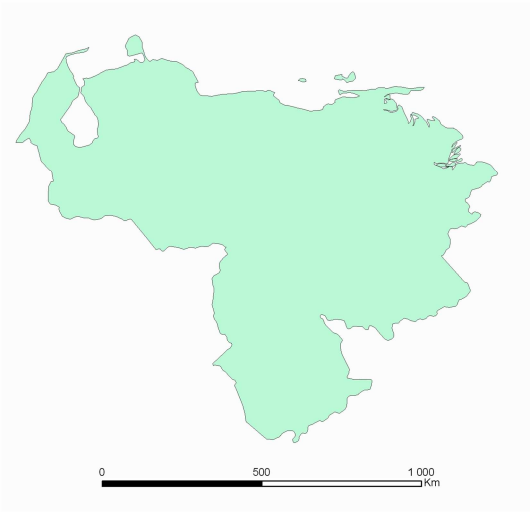

b)

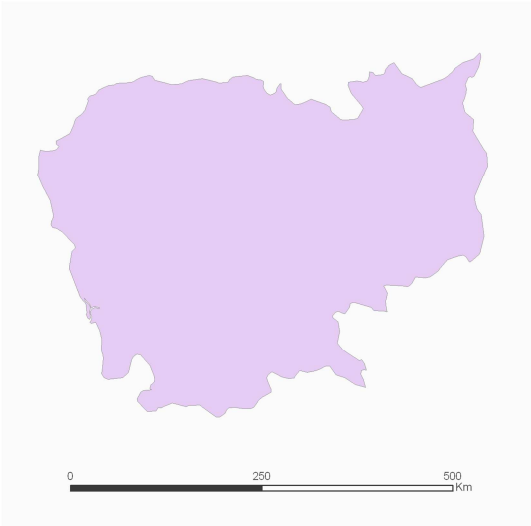

› Přírodovědecká fakulta Ostravské univerzity v Ostravě • 30. dubna 22
701 03 Ostrava • Česká republika • telefon +420 597 460 228
fax +420 596 120 478 • prf.osu.cz

IČ 61988987 • DIČ CZ61988987
Bankovní spojení: ČNB Ostrava, č. ú. 931761/0710

UNIVERSITAS OSTRAVIENSIS
Facultas Rerum Naturalium

KATEDRA SOCIÁLNÍ GEOGRAFIE A REGIONÁLNÍHO ROZVOJE

TEST K PŘIJÍMACÍ ZKOUŠCE
pro obor
POLITICKÁ A KULTURNÍ GEOGRAFIE (nav. mgr.)
na akademický rok 2015/2016

Příjmení a jméno: .....

Kontakt (e-mail, telefon): .....

Univerzitní číslo: .....

Pokyny:

- Celkově můžete z testu získat 50 bodů.
- Bodové hodnocení otázek se liší podle jejich náročnosti.
- Zadání otázek čtěte velmi pozorně a teprve, když jste si jisti, zapište odpověď do daného umístění. Odpověď u uzavřených otázek označte kroužkem – korekci označte křížkem a vaši novou odpověď opět kroužkem – nejednoznačné označení nebude hodnoceno.
- Uzavřené otázky mají pouze jednu správnou odpověď.
- Pište čitelně – nejlépe hůlkovým písmem, nečitelné odpovědi nebudou hodnoceny.
- Na vyplnění testu máte max. 20 minut.

› Přírodovědecká fakulta Ostravské univerzity v Ostravě • 30. dubna 22
701 03 Ostrava • Česká republika • telefon +420 597 460 228
fax +420 596 120 478 • prf.osu.cz

IČ 61988987 • DIČ CZ61988987
Bankovní spojení: ČNB Ostrava, č. ú. 931761/0710

› Přírodovědecká fakulta Ostravské univerzity v Ostravě • 30. dubna 22
701 03 Ostrava • Česká republika • telefon +420 597 460 228
fax +420 596 120 478 • prf.osu.cz

IČ 61988987 • DIČ CZ61988987
Bankovní spojení: ČNB Ostrava, č. ú. 931761/0710

1. Mezi politické geografy nelze řadit (2 bodů):

a) Geraoid Ó Tuathail
b) Joanne Sharp
c) Anthony Giddens
d) John Agnew

2. Wallersteinova teorie, konceptualizující vztah jádra a periferie, se převážně zaměřuje na: (2 body)

a) vzájemný vztah rozvojových států v kapitalistické ekonomice (např. Indonésie a Papua-Nová Guinea)
b) mocenské nevyváženosti impériem a jeho satelity v komunistické ekonomice (např. SSSR a ČSSR)
c) nevyvážený politicko-ekonomický vztah vyspělých a zaostalých států v kapitalistické ekonomice (např. UK a Svazijsko)
d) vojenskou dominanci USA vůči tzv. třetímu světu

3. Autory teorie cleavages jsou: (2 bod)

a) Lipset a Rokkan
b) Dahl a Sartori
c) Buzan a Wæver
d) Carr a Morgenthau

4. Pokud v poměrném volebním systému při přepočtu odevzdaných hlasů na získané mandáty místo d'Hondtovy metody volebních dělitelů, pracující s číselnou řadou přirozených celých čísel počínajících číslem 1, použijeme metodu Sainte-Laguë, používající pouze řadu lichých přirozených celých čísel, nastane oproti původní d'Hondtově variantě jedna z následujících možností: (2 bodů)

a) Zvýhodněny budou velké strany.
b) Zvýhodněny budou malé strany.
c) Zvýhodněny budou strany, které kandidují ve všech volebních krajích/obvodech.
d) Nestane se nic, pro přepočítání hlasů na mandáty je zejména důležitý počet dělitelů, ne jejich číselné hodnoty.

5. Co to jsou remitence: (2 body)

.....

.....

.....

6. Nestoriáni jsou: (2 body)

a) příslušníci islámské sekty ze 18. století – předchůdci baháistů
b) označení pro ty, co odmítli výsledky 2. Vatikánského koncilu
c) příslušníci heretické křesťanské církve
d) sekta založená odpadlíky od většinového mormonismu vedeného Youngem

7. Příkladem hypotézy je věta: (2 body)

a) Volební účast se zvyšuje s rostoucím vzděláním.
b) V Česku narůstá počet vysokoškolsky vzdělaných obyvatel.
c) Předpokládám, že 5 % vysokoškolsky vzdělaných obyvatel je nezaměstnaných.
d) V Česku v příštích 10 letech naroste počet vysokoškolsky vzdělaných obyvatel.

8. Tzv. Monroeva doktrína: (2 body)

a) vyhlásila evropskou intervenci na americkém kontinentu za akt agrese vůči USA
b) měla za cíl omezit vliv Sovětského svazu v Latinské Americe
c) byla reakcí na kubánskou revoluci
d) zrušila otroctví na americkém kontinentu

9. Doplňte vynechaná slova: (max. 10 bodů)

Jedním z nejvýznamnějších integračních pokusů na asijském kontinentu je ***……a……,*** *která má své kořeny v období počátku devadesátých let, kdy se SSSR rozpadl na* ***…b…*** *nezávislých států, mezi nimiž byly diskutovány problémy ohledně vzájemných hranic. Následně se tyto diskuse přenesly na uskupení států Čína plus Rusko, Kazachstán, Kyrgyzstán a Tádžikistán. Významným výsledkem této organizace byla bezesporu Smlouva o posílení důvěry ve vojenské oblasti, která byla podepsána v roce 1996 v* ***…c…,*** *což se promítlo i do názvu této organizace. V roce 2001 doplnil původní pětku* ***…d…,*** *v jehož hlavním městě* ***…e…*** *se uskutečnil ve dnech 10.-11.června 2010 summit na nejvyšší úrovni.*

a).....Šanghajská organizace pro spolupráci

b).....15

c).....Šanghaj

d).....Uzbekistán

e).....Taškent

10. Ke každé kolonii dopište koloniální mocnost, které patřila v období před 1. světovou válkou: (10 bodů)

Kamerun	.....	Německo
Senegal	.....	Francie
Mosambik	.....	Portugalsko
Sierra Leone	.....	Velká Británie
Guinea	.....	Francie

11. Doplňte názvy států, v rámci nichž se dané území nachází: (10 bodů)

Mandžusko	.....	Čína
Kalmycko	.....	Rusko
Alberta	.....	Kanada
Graubünden	.....	Švýcarsko
Tuva	.....	Rusko

12. Které státy (jihoamerický a asijský) znázorňují kartografická zobrazení níže: (4 bodů)

a) …….…… Venezuela

b) …….……Kambodža

a)

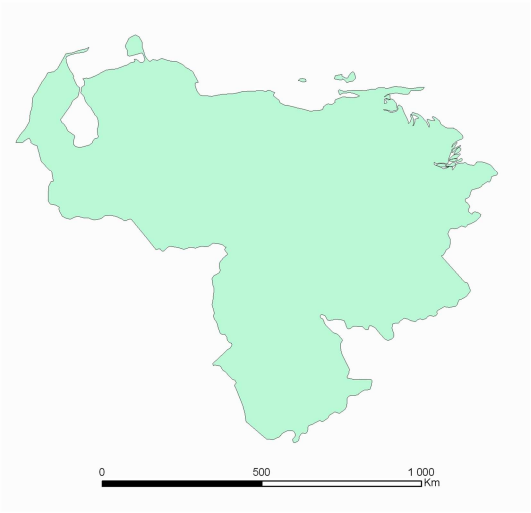
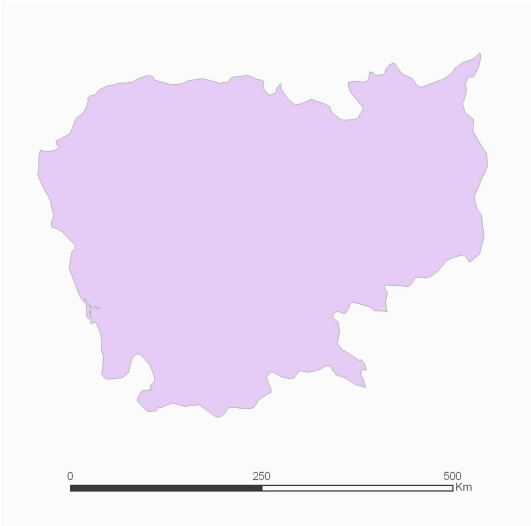
b)